I. Espacio Geográfico

Control de Materia N°7
ESPACIO GEOGRÁFICO

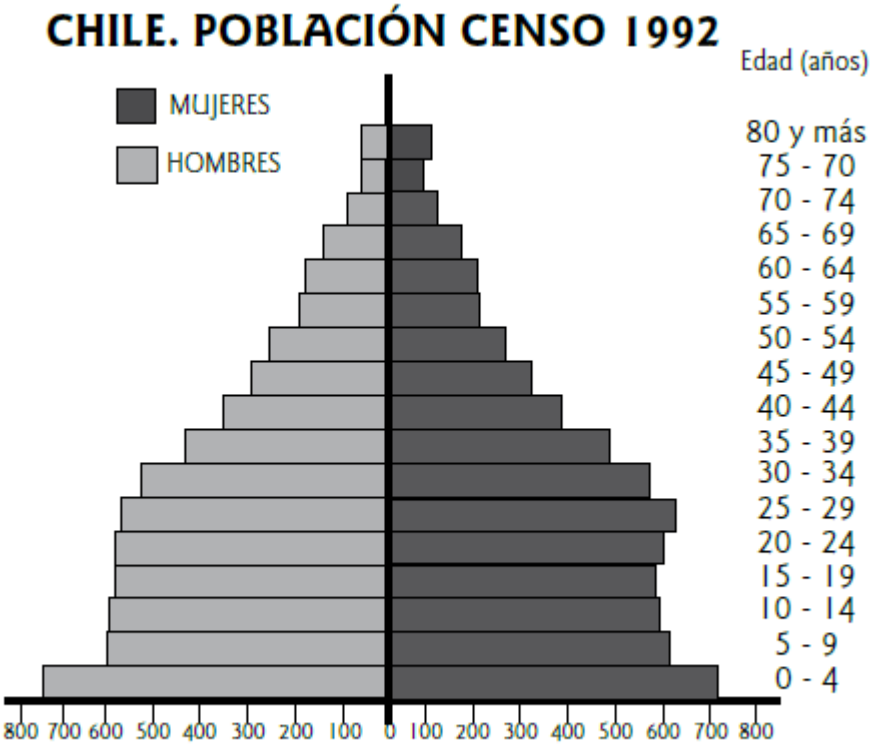

1. Las pirámides de población representan el volumen de población de un lugar en relación al sexo y la edad. Del análisis de la pirámide de población de Chile adjunta, es correcto señalar que

A) representa la mayor esperanza de vida que ha tenido Chile.
B) es un histograma de tipo regresivo.
C) representa los mayores niveles históricos de mortalidad bruta en Chile.
D) la mayor cantidad de población se concentra en el sector joven - adulto.
E) representa una pirámide de población conocida como madura.

2. "Proyección de los años de vida que presenta una persona al momento de nacer, en un determinado país". La definición hace referencia al concepto de

A) esperanza de vida.
B) tasa de natalidad.
C) proyección de vida.
D) tasa de fecundidad.
E) estadística vital.

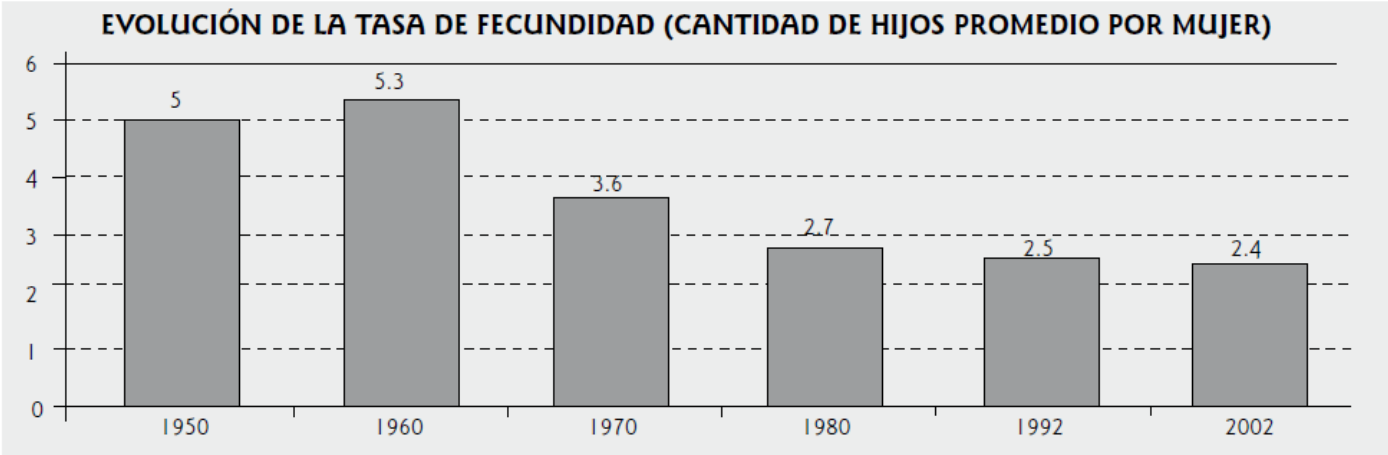

3. En el gráfico anterior se hace mención a la evolución que ha seguido en el último tiempo la tasa de fecundidad. La línea evolutiva que ha seguido esta tasa, desde 1960 hasta el 2002, ha repercutido actualmente en

A) el aumento de la esperanza de vida.
B) la reducción del tamaño de la familia.
C) la baja en la tasa de mortalidad general.
D) la disminución en el porcentaje de migrantes.
E) la expansión que muestra el crecimiento natural.

4. En relación con los resultados del Censo aplicado en Chile el año 2002, es correcto señalar que

I. la población masculina supera en cantidad a la femenina.
II. predomina la residencia de la población en zonas urbanas.
III. el crecimiento vegetativo ha experimentado una disminución, respecto del censo anterior.

A) Sólo II
B) Sólo I y II
C) Sólo I y III
D) Sólo II y III
E) I, II y III

5. El crecimiento vegetativo de la población expresa el incremento del número de habitantes de un territorio, en un período determinado. El comportamiento de este indicador está directamente relacionado con la (el)

A) tasa de natalidad y la tasa de mortalidad.
B) índice de masculinidad y la tasa de fecundidad.
C) tasa de nupcialidad y el índice de masculinidad.
D) índice de desempleo y la tasa de nupcialidad.
E) tasa de dependencia y el índice de desempleo.

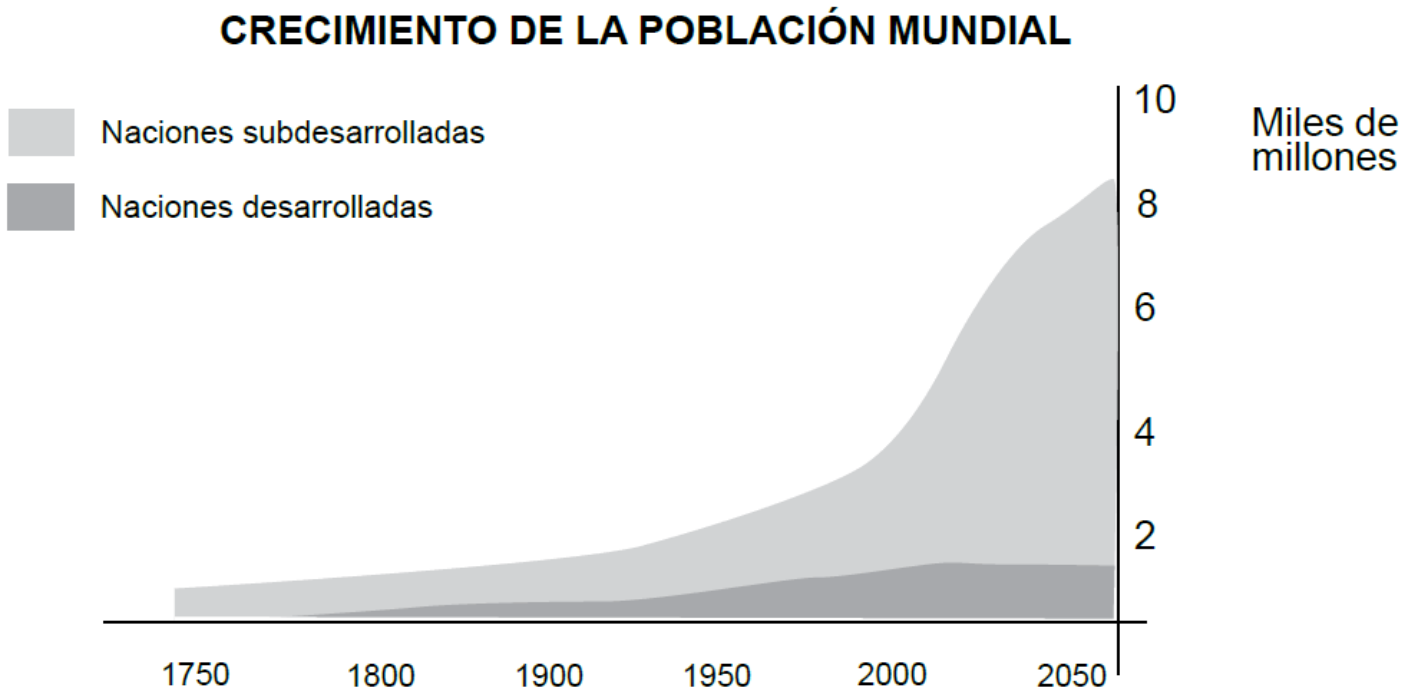

6. En el gráfico adjunto se observa el notable crecimiento de la población del conjunto de las naciones subdesarrolladas desde mediados del siglo XIX hasta la actualidad. Entre los factores que explican esta tendencia demográfica podemos indicar

A) la aplicación de políticas públicas antinatalistas.
B) la adaptación de conductas sociales foráneas.
C) el uso generalizado de métodos naturales de anticoncepción.
D) el aumento del promedio de la esperanza de vida de las personas.
E) la disminución de los movimientos migratorios hacia los polos de desarrollo.

7. La diversidad cultural presente en la población chilena se puede visualizar a través de diferencias

I. de sexo y edad.
II. de etnia y religión.
III. socioeconómicas.

A) Sólo I
B) Sólo III
C) Sólo I y III
D) Sólo II y III
E) I, II y III

8. El sostenido aumento de la esperanza de vida que ha experimentado el país desde mediados del siglo XX hasta nuestros días se explica, en parte, por

A) el aumento del índice de masculinidad.
B) el descenso de la tasa de natalidad.
C) el aumento de la tasa de crecimiento natural.
D) la disminución en la morbilidad.
E) la disminución en la tasa de fecundidad.

9. De acuerdo a las cifras entregadas en el último censo del año 2012, los indicadores de crecimiento vegetativo, natalidad y mortalidad hacen pensar que Chile está en un proceso de:

A) envejecimiento de su población.
B) aumento constante de la mortalidad.
C) rejuvenecimiento de su población.
D) pasar de joven a adulto.
E) explosión demográfica.

10. Las conductas demográficas de Chile durante el siglo XX han sido fluctuantes. Comparando los resultados de los dos últimos censos (1992 y 2002) podemos señalar que

I. la población rural aumentó porcentualmente.
II. la tasa de fecundidad ha disminuido.
III. el nivel de crecimiento vegetativo ha disminuido.

A) Sólo I
B) Sólo III
C) Sólo I y II
D) Sólo I y III
E) Sólo II y III

11. Un plano es una representación de la forma y disposición en que se encuentran edificios, viviendas y calles de una ciudad. Hay planos irregulares, radio concéntrico y ortogonal o de cuadrícula. ¿Cuál de las siguientes proposiciones describe correctamente un plano ortogonal utilizado en Chile por la conquista española?

A) El trazado de las calles se presenta de manera irregular, sin dirección establecida.
B) Las calles se cruzan entre sí, formando ángulos rectos, como un tablero de damas.
C) No tiene un trazado definido, pues no evidencia ningún tipo de planificación urbana.
D) Las avenidas se orientan de manera caótica en el centro, pero ordenadas en la periferia.
E) Presenta varios tipos de calles, unas concéntricas y otras diagonales desde el centro.

12. Constituye uno de los problemas más comunes que presentan las ciudades chilenas y radica en que la población más pobre es expulsada hacia sectores donde el valor del suelo es menor, imposibilitando la convivencia en un mismo barrio de distintos grupos socioeconómicos. El párrafo hace alusión al concepto de

A) segregación socio - espacial
B) hacinamiento
C) marginalidad
D) autoexclusión
E) aglomeración espacial

13. La expansión urbana es el proceso a través del cual la ciudad considerada como una entidad dinámica, crece y se transforma, hecho que se fue acentuando paulatinamente en Chile con bastante intensidad durante el siglo XX. Dentro de los efectos más sobresalientes de este proceso, se puede sostener que la expansión urbana trae consigo:

A) El mejoramiento sustancial de las condiciones medioambientales.
B) El incremento de las actividades primarias y de subsistencia.
C) La homogeneidad de la población, tanto desde el punto de vista social como cultural.
D) Crecimiento vertical de la ciudad y ocupación de los espacios ubicados en la periferia.
E) Procesos de descentralización tanto administrativa como social y económica.

14. La forma física que tiene una ciudad se conoce con el nombre de

A) morfología
B) periurbano
C) metrópolis
D) megalópolis
E) rururbano

15. Los planos urbanos demuestran en gran medida, la historia y las funciones de una ciudad. En Chile es común, desde la época de la conquista, la existencia del modelo de damero, sin embargo, la evolución de la urbe puede derivar en diversos tipos de planos. Uno de ellos es el Polinuclear, en el que se observa(n) la(s) siguiente(s) característica(s) relevante(s):

I. Varios núcleos en la ciudad y sectores diferenciados.
II. Ausencia de industrias y significativo comercio mayorista.
III. Un solo centro, con los edificios más importantes rodeados de manzanas con calles que se cortan perpendicularmente.

A) Sólo I
B) Sólo I y II
C) Sólo I y III
D) Sólo II y III
E) I, II y III

16. Una de las definiciones de globalización apunta a destacar el conjunto de cambios experimentados en la economía mundial en las últimas décadas. Desde esta perspectiva, dicho proceso ha generado, entre otros aspectos, un aumento de

I. la internacionalización de la producción.
II. la interdependencia económica entre las naciones.
III. la conectividad comunicacional e informática a nivel planetario.

A) Solo I
B) Solo II
C) Solo III
D) Solo I y II
E) I, II y III

17. El fenómeno de globalización ha generado efectos negativos y positivos en las distintas naciones del mundo. En este contexto podemos aseverar que

I. se ha producido un proceso de independencia económica en los países subdesarrollados.
II. las economías desarrolladas exportan masivamente sus recursos naturales.
III. se ha masificado el uso de tecnologías domésticas y de los medios de comunicación.

A) Solo I
B) Solo II
C) Solo III
D) Solo I y III
E) Solo II y III

18. La globalización es una tendencia que incide de manera creciente en el tejido empresarial y social. Cada vez son más las consecuencias que en este sentido afectan directamente al país. Algunas de ellas se identifican con la

I. internacionalización de los capitales y de las empresas.
II. construcción de un modelo estatista de desarrollo.
III. acumulación de capitales y poder económico en pequeño número de personas.

A) Sólo II
B) Sólo III
C) Sólo I y II
D) Sólo I y III
E) Sólo II y III

19. De los siguientes enunciados, ¿cuál apunta a establecer un comportamiento de la población mundial en la era de la Globalización?

A) La priorización de elementos políticos por sobre elementos económicos.
B) La utilización de elementos tecnológicos en la vida cotidiana.
C) La priorización del tiempo libre por sobre el tiempo laboral.
D) La valoración de la austeridad en el consumo.
E) La valoración de ideales sociales por sobre ideales individuales.

20. "La reciente fase de la globalización ha vuelto más evidentes los rezagos sociales que persisten en la región, en particular en lo que respecta a educación, empleo y protección social. Éstas son las tres áreas críticas en las que se deben generar círculos virtuosos que permitan asegurar una mayor capacidad de participación tanto en el mundo global como en la construcción y en los beneficios del desarrollo económico"

(CEPAL, Globalización y desarrollo social, 2002).

Del texto anterior se deduce que:

I. La globalización pone en evidencia los problemas sociales de América Latina.
II. En el contexto de la globalización, sólo se pueden solucionar los problemas si se tiene un sistema económico centralizado.
III. Hasta ahora la globalización es un proceso que está terminando definitivamente con la inequidad en el mundo.

A) Sólo I
B) Sólo II
C) Sólo III
D) Sólo I y II
E) Sólo I y III

21. En el actual mundo globalizado, los estados nacionales han dejado de ser los únicos sujetos internacionales ya que ha comenzado a proliferar un conjunto de nuevos actores. De los siguientes, ¿cuál(es) puede(n) ser considerado(s) como actor(es) importante(s) en la sociedad globalizada?

I. Organizaciones no gubernamentales que promueven la defensa de los Derechos Humanos, como Amnistía Internacional.
II. Empresas multinacionales o transnacionales, como Ford, Nestlé o Coca Cola.
III. Instituciones económicas internacionales, como el Fondo Monetario internacional o el Banco Mundial.

A) Solo I
B) Solo II
C) Solo I y II
D) Solo II y III
E) I, II y III

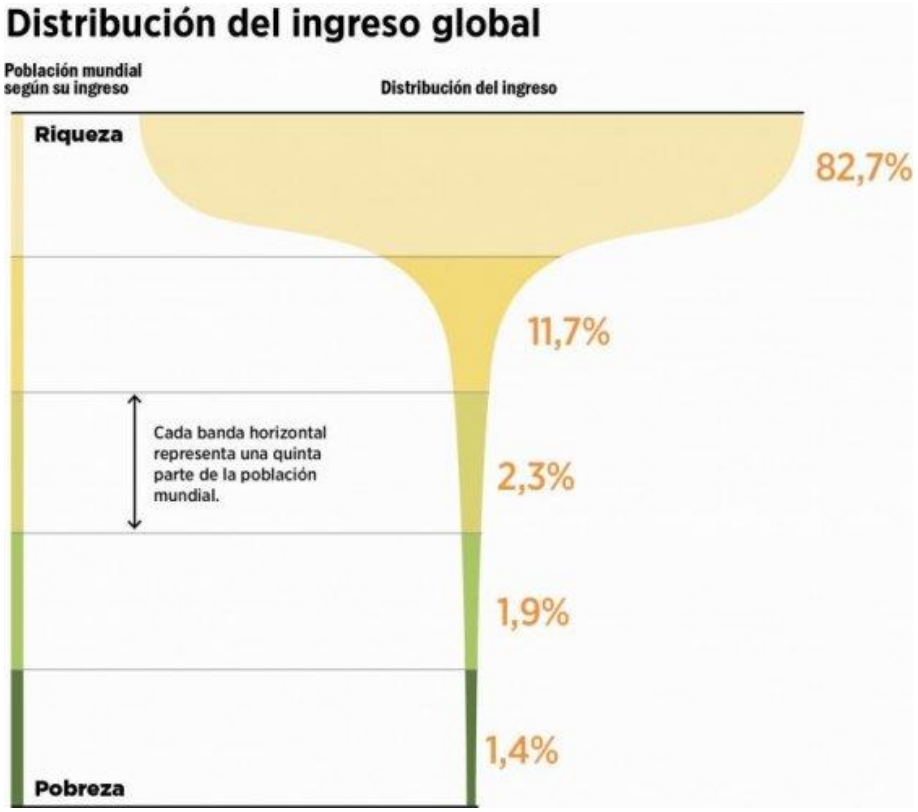

22. A partir del modelo de distribución de la riqueza a nivel mundial podemos concluir que:

A) El 82,7% de la población está en condición de riqueza.
B) Una quinta parte de la población recibe el 82,7% de la riqueza.
C) Se denominan pobres aquellos que reciben un ingreso de menos de 1,25 dólares al día.
D) Europa y Estados Unidos son los países más ricos del planeta.
E) Los países más pobres son aquellos denominados subdesarrollados.

23. Las investigaciones de 1985 revelaron una disminución acentuada en un 16% cada año a partir de 1980. La tendencia se ha mantenido hasta la fecha y fue confirmada por el sistema satelital TOMS a bordo del satélite NIMBUS 7. La emisión de clorofluocarbono es uno de los principales causantes de esta catástrofe que tiene, entre otras consecuencias, el aumento del cáncer a la piel y la desaparición de especies animales y vegetales. ¿A qué problema medioambiental hace referencia el párrafo?

A) Al calentamiento global del planeta.
B) Al avance de la deforestación.
C) Al adelgazamiento de la capa de ozono.
D) Al agotamiento del agua dulce.
E) Al avance de la desertificación.

24. Pese a la industrialización presente actualmente a escala planetaria, la pobreza continúa siendo uno de los problemas más importantes de la sociedad contemporánea. En relación con ella, es (son) elemento(s) propio(s) y distintivo(s) de un país en situación de pobreza

I. la ausencia de deuda externa.
II. los bajos Índices de Desarrollo Humano.
III. la alta escolaridad.

A) Solo II
B) Solo III
C) Solo I y III
D) Solo II y III
E) I, II y III

PRINCIPALES EXPORTACIONES CHILENAS EN LA DÉCADA 1990

Lugar	Producto
N° 1	Cobre
N° 2	Harina de pescado
N° 3	Celulosa
N° 4	Uvas
N° 5	Hierro

(www.prochile.cl)

25. Del análisis del cuadro adjunto sobre productos chilenos de exportación, y considerando sus conocimientos, se puede afirmar que

I. las exportaciones se sustentan principalmente en la explotación de recursos naturales.
II. las exportaciones más importantes, como el cobre y la celulosa, corresponden a materias primas.
III. todos los productos que aparecen en el cuadro forman parte de las llamadas "exportaciones no tradicionales".

A) Sólo I
B) Sólo II
C) Sólo III
D) Sólo I y II
E) I, II y III

26. En relación con los tratados de libre comercio y de integración económica que Chile ha firmado durante la década de 1990 y en los inicios del siglo XXI, se puede afirmar que

A) se han centrado en buscar acuerdos solo con Europa.
B) buscan reducir los aranceles y facilitar el libre comercio.
C) se han privilegiado los acuerdos económicos con América Latina.
D) permiten hacer más rígido el sistema comercial.
E) convirtieron a Chile en el principal país exportador de América.

27. El desarrollo de las redes de conectividad se han hecho cada vez más importantes tanto en el ámbito local, regional, nacional, como en el internacional. ¿Por qué la conectividad ha cobrado importancia en el último tiempo?

I. Aumenta la competitividad, facilitando la inserción de Chile en la economía globalizada.
II. Mejora la infraestructura del país, agilizando la comunicación entre centros productivos, centros de consumo y de exportación.
III. Debido a que es responsable exclusivo del crecimiento económico.

A) Solo I
B) Solo II
C) Solo I y II
D) Solo II y III
E) I, II y III

28. Chile ha intensificado sus esfuerzos por lograr acuerdos de integración con distintos países latinoamericanos. ¿En qué tratado(s) latinoamericano(s) participa nuestro país?

I. Asociación Latinoamericana de Integración (ALADI)
II. Mercado Común del Sur (MERCOSUR)
III. Comunidad del Caribe (CARICOM)

A) Sólo II
B) Sólo III
C) Sólo I y II
D) Sólo I y III
E) I, II y III

29. Dadas las condiciones climáticas y del suelo, presentes en algunas zonas del país, la actividad agrícola constituye uno de los pilares de la economía nacional. En relación con esta actividad podemos señalar que

I. mientras que en el Norte Grande su producción se localiza en oasis, en la Zona Austral predominan los cultivos bajo techo.
II. en el Norte Chico la escasez de precipitaciones ha determinado la construcción de embalses.
III. los cultivos tradicionales más representativos y de mayor área de cultivo son cereales como el trigo y el maíz.

A) Sólo I
B) Sólo I y II
C) Sólo I y III
D) Sólo II y III
E) I, II y III

30. Si bien la economía chilena ha logrado en el último tiempo ciertos grados de diversificación y modernización, sigue presentando como estructura(s) tradicional(es)

I. sustentar su crecimiento en la explotación de los recursos naturales.
II. que un producto minero (cobre) y una actividad económica (minería) concentren, en conjunto, más del 44% de las exportaciones.
III. la utilización, mayoritaria, en el campo del sistema de inquilinaje para obtener mano de obra.

A) Sólo I
B) Sólo II
C) Sólo III
D) Sólo I y II
E) I, II y III

CLAVES
Control de Materia N°7

1.	D	**16.**	E
2.	A	**17.**	C
3.	B	**18.**	D
4.	D	**19.**	B
5.	A	**20.**	A
6.	D	**21.**	E
7.	E	**22.**	B
8.	D	**23.**	C
9.	A	**24.**	A
10.	E	**25.**	D
11.	B	**26.**	B
12.	A	**27.**	C
13.	D	**28.**	C
14.	A	**29.**	E
15.	A	**30.**	D